Educación Primaria

CUADERNO DE VERANO 1º DE PRIMARIA

"Matemáticas"

www.educacon.es

Términos de uso:

La licencia permite su uso personal.

Compartir sus resultados en las redes sociales, añadiendo la autoría. Y utilizar el material junto a otros materiales.

@educacon_es

No está permitido: vender, distribuir, publicar o utilizar el recurso o parte de sus imágenes para elaborar otros.

Educacon.es

1.Suma



2¿Cuántos plátanos se ha comido el mono?



3. Sigue la serie.

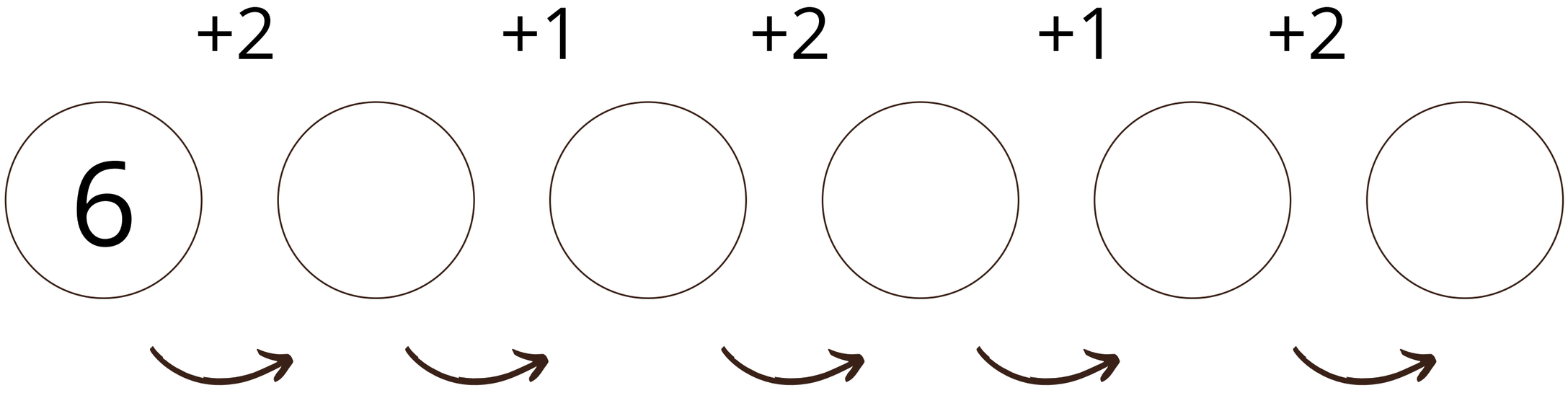

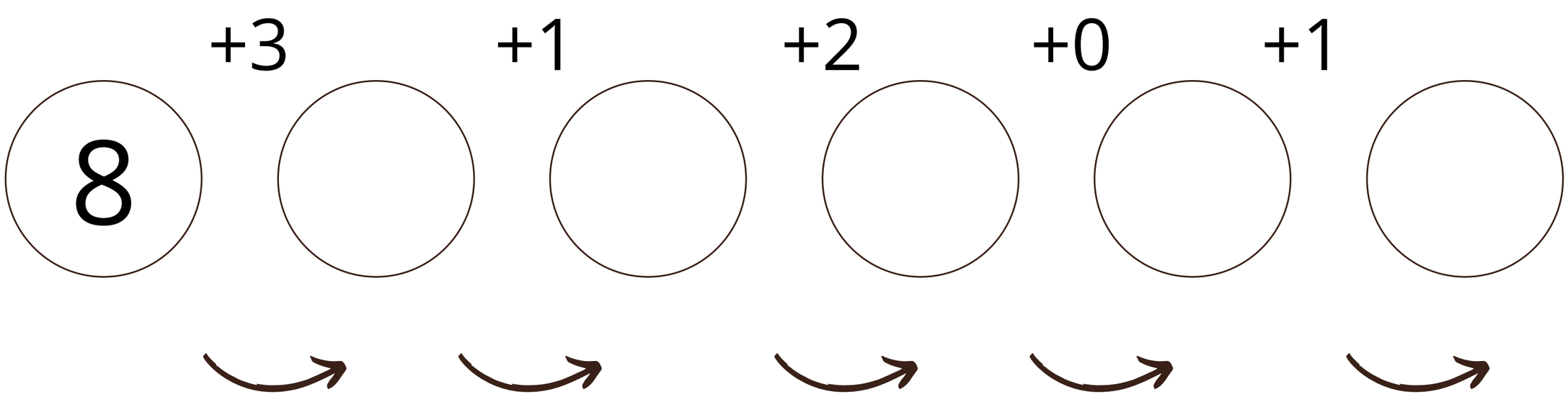

4.Mira los dibujos y completa las restas:



□ - □ = □

□ - □ = □

5.Mira atentamente el dibujo y completa el cuadro.

Izquierda	Derecha
	

6.Observa el dibujo y completa

10 + ☐ = ☐

1 decena y 3 unidades



☐ + ☐ = ☐

..... decena y ..... unidades

11.Rodea decenas y completa.



..... decenas y ..... unidades



..... decenas y ..... unidades



..... decenas y ..... unidades

12.Relaciona con flechas

triángulo

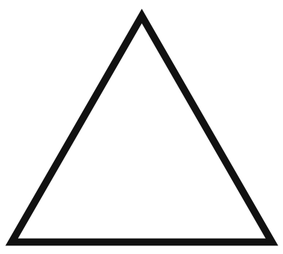

cuadrado

círculo



rectángulo



cuatro lados rectos

sin lados

cuatro lados rectos

tres lados rectos

13.Relaciona con flechas

cuarenta y dos	30
veintiocho	12
diecisiete	11
setenta y dos	17
treinta	28
doce	42
once	44
cuarenta y cuatro	72

14.Escribe los números

sesenta y dos

trece

diecinueve

cuarenta y tres

ochenta y ocho

cincuenta y nueve

noventa y tres

siete

cincuenta y cinco

noventa y tres

sesenta y siete

setenta y tres

catorce

15.Observa la tabla y colorea

Rectángulo - azul

Triángulo- verde

Círculo - rojo

Cuadrado - amarillo

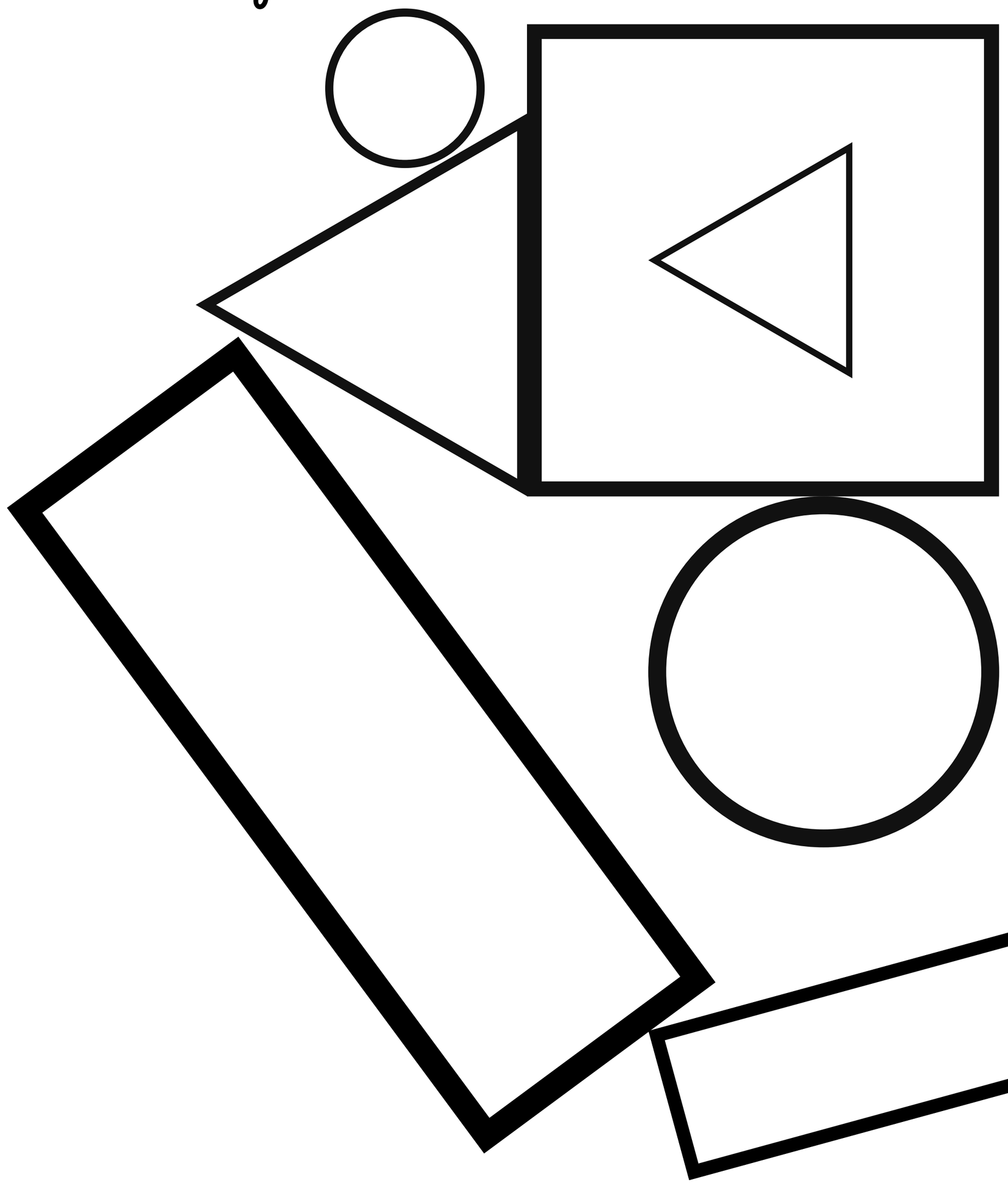

16.Relaciona

15	70+7
20	59+7
58	19+7
27	70+8
68	15+9
24	16+11
18	48+10
66	13+7
78	9+6
26	60+8
77	9+9

17.Suma.

48	70	19
+11	+71	+41

53	38	76
+14	+47	+14

18.Resta

48	84	24
-41	-7	-6

53	47	76
-14	-24	-14